Логические задания со спичками

Задание №1

Переложите одну спичку таким образом, чтобы домик был повернут в другую сторону.

Ответ:

Задание №2

На рисунке фигура – «корова». Переложите всего две спички так, чтобы она смотрела в другую сторону.



Ответ:



Задание №3

В данной фигуре 6 квадратов. Уберите 3 спички, у вас должно получиться 4 квадрата.



Ответ:



Задание №4

Ниже представлена фигура, в которой 9 квадратов. Ваша задача убрать всего 4 палочки, чтобы получилось 5 квадратов.



Ответ:

Задание №5

В фигуре, составленной из спичек, всего 6 квадратов. Вам нужно убрать 2 спички, чтобы получилось всего 4 квадрата.



Ответ:



Задание №6

Ваше задание – переложить 2 спички так, чтобы совок стал пустым.

Ответ 1:

Ответ 2:

Задание №7

Данная фигура состоит из 5 квадратов, вам нужно переложить 3 спички, чтобы у вас получилось 4 квадрата.



Ответ:



Задание №8

В данной фигуре нужно переложить 3 спички для того, чтобы получить 4 треугольника.

Ответ:

Задание №9

В фигуре из 4 квадратов нужно переложить всего 3 спички, чтобы получилось три квадрата одинаковых размеров.



Ответ:



Задание №10

В этой фигуре из спичек нужно переложить 4 спички, чтобы получилось 4 треугольника.



Ответ:



Задание №11

Предложенная фигура – «воздушный шар». Вам нужно переложить 4 спички, у вас должен получиться четырехугольник, состоящий из 4 треугольников.



Ответ:



Задание №12

Фигура, составленная из спичек – ключ. Вы должны переложить 4 так, чтобы у вас получилось 3 квадрата.



Ответ:

Задание № 13

Из фигуры «топор» переложите 4 спички так, чтобы получилось 4 треугольника.



Ответ: